UGEL Nº 10

HUARAL

DIRECCIÓN REGIONAL DE EDUCACIÓN

"Año de la Inversión para el Desarrollo Rural y la Seguridad Alimentaria"
"Decenio de las Personas con Discapacidad en el Perú 2007 - 2016"

IX CONCURSO REGIONAL DE MATEMÁTICA

II ETAPA

CUARTO GRADO

Recomendaciones:
- La prueba tiene una duración de 1 hora, 30 minutos.
- No está permitido usar la calculadora, ni consultar notas ó textos.
- Entrega tu hoja de respuestas tan pronto consideres que has terminado la prueba.
- En caso de empate se tomará en cuenta la hora de entrega.

Escribe el resultado en la hoja de respuesta (Apoyo del Aplicador).

1.- Si tú pesas 47 kg y tu amigo pesa 9000 gramos menos que tú. ¿Cuánto pesa tu amigo?

2.- Los esposos De La Cruz tienen 8 hijas y cada hija tiene un hermano. ¿Cuántos miembros como mínimo tienen la familia De la Cruz?

3.- El profesor Ciro reparte 10 hojas a cada uno de los 25 alumnos y aún le quedan 250 hojas ¿Cuántas hojas tenía el profesor?

4.- Juan recibe como sueldo S/. 200. Si gasta en comida 2/5 de su sueldo y en ropa ¼ del total de su sueldo. ¿Cuánto dinero aún le queda?

5.- Busca una figura que se relacione con A, B y C.

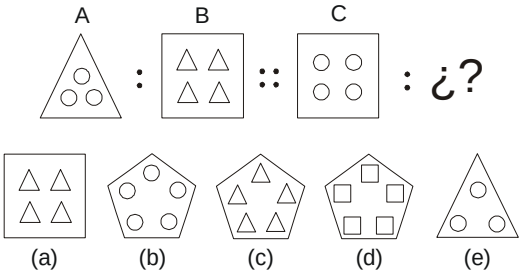

6.- En la expresión. Hallar el valor de "m"

19; 31; 44; 58; m

7.- En el siguiente gráfico, calcular el número total de triángulos:

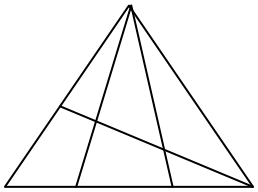

8.- De 50 alumnos que llevan los cursos de aritmética y álgebra, se sabe que 30 llevan aritmética y 13 llevan aritmética y algebra. ¿Cuántos llevan sólo álgebra?.

9.- De un pan de molde dividido en 10 partes iguales; Inés come 1/10, Juana 3/10 y Carmen 5/10 ¿Cuánto queda?

10.- Calcula el perímetro de la siguiente figura.

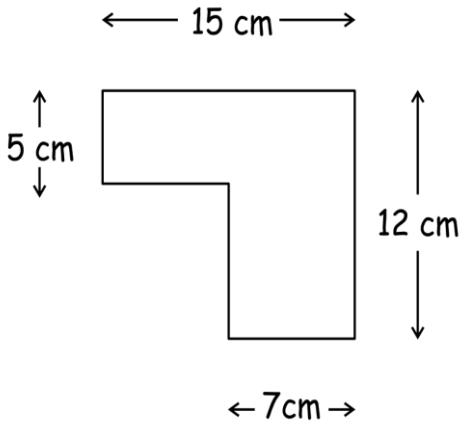

Gracias participar